Mart 1976

Milliyet

ÇOCUK

7'den 70'e bütün çocukların dergisi

Cilt-12/Sayı-178/Fiyatı-300 Kuruş

ÖĞRENCİLERİ Ortaokul giriş sınavlarına ve Milliyet Gazetesinin Türkiye İlkokullararası Bilgi ve Kültür Yarışmasına hazırlıyoruz

Bu sayıda

ARİSTOKRATLAR
SÜPER MIRNAV
KAPTAN CİNGÖZ
KASTOR VADİSİ

Milliyet
ÇOCUK
DERGİSİ

Çarşamba günleri çıkar

Sahibi :
Milliyet Gazetecilik
A. Ş. adına :
ERCÜMENT KARACAN

Genel Yayın ve Sorumlu
Yazı İşleri Müdürü :
ABDİ İPEKÇİ

Yönetmen :
CEMAL HOŞGÖR

Adres :
Nuruosmaniye Caddesi
65/67 Cağaloğlu
İstanbul

Telefon : 22 44 10

Milliyet Çocuk Dergisi
Milliyet Ofset
Tesislerinde
hazırlanmıştır.

ABONE :
Yıllık 150 TL.
(Uçak postası 173 TL.)
Altı aylık 75 TL.
(Uçak postası 86.50 TL.)
Yabancı ülkeler için
ayrıca posta ücreti
eklenir.

İLAN FİYATLARI :
Arka kapak ve
tam sayfa renkli
3.000 TL.

Milliyet Çocuk Dergisi'nden Mektup

Sevgili Okurlar,
174 ncü sayıda başladığımız Tele-Kutu yarışmamıza gösterdiğiniz ilgi gerçekten büyük oldu. Çok çok teşekkürler. Biz burada ÖNEMLİ BİR DURUMU BELİRTMEK İSTİYORUZ... Tele Kutu oyunumuza katılan bazı okurlarımız zarflarına yarışma kuponu yapıştırmadan bize gönderiyorlar. Oysa, kuralımız bu kuponu gerektiriyor. UNUTMAYIN KUPON YAPIŞIK OLMAYAN ZARFLAR ÇEKİLİŞE GİREMEZLER.

İSTEKLERİMİZ

1-Her haftaki oyunun kuponu bir hafta sonra yayınlanan dergimizin arka kapağındadır. Örneğin bu haftaki dergiyi aldınız ve yarışmaya katılmak istiyorsunuz. Numaranızı seçip bir zarfın (içine değil)arkasına kocaman bir şekilde yazın. (Rakkamın boyu en az 3-4 santim olsun)

2-Zarfın üst kısmına adınızı , adresinizi yazın ve bekleyin. BİR HAFTA SONRA ÇIKAN YENİ DERGİMİZİ ALIP ,

3-Arka kapaktaki yarışma kuponunu kesip, zarfınızın numarayı yazdığımız tarafına o kuponu yapıştırın.

4-Zarfınızın arka tarafı tamamdır. Şimdi ön tarafını çevirin ve oraya

Milliyet Çocuk Dergisi
Nuruosmaniye 65-67
Cağaloğlu
İSTANBUL

adresimizi yazın ve zarfınızı postaya atın. Böylece oyun kurallarına uymuş oluyorsunuz.

Size de armağan çıksın dileğimizle, en güzel günler sizin olsun diyoruz...

Yönetmen

1000 ARMAĞANLI EŞYA PİYANGOSU

10 MART ÇARŞAMBA GÜNÜ
YAYINLANACAK OLAN
MİLLİYET ÇOCUK DERGİSİ,
ÇOCUK DERGİLERİ YAYIN ALANINDA
BÜYÜK OLAYI BAŞLATIYOR VE
HERKESE BİR

PİYANGO BİLETİ

VERİYOR

ÇOCUK DERGİLERİNİN EN BÜYÜĞÜ

Milliyet ÇOCUK DERGİSİ

AKLINIZA GELEN HERŞEYİ VERECEK

İŞTE ARMAĞANLAR

1 BİSİKLET
3 PİKAP
6 YÜRÜYEN SIPA
10 ALTIN UÇLU DOLMAKALEM
350 KUTU SULU BOYA
280 PEMBE PANTER
250 FATOŞ OYUNCAĞI
100 İMZALI PLAK

Gelecek sayımızdan itibaren 6 kupon yayınlıyacağız. Bu kupon - ları ve altıncı kupondan sonraki hafta derginizde bulunan Eşya piyangosu biletinin bir parçasını saklayacaksınız.
Çekiliş sonrasında kazanan numaralar dergimizde ilân edilecek ve armağanlar kazananlara gönderilecek.

TAKVİMİNİZE İŞARET KOYUNUZ

10 MART GÜNÜ ÇIKACAK MILLIYET ÇOCUK DERGISINI
ŞİMDİDEN GAZETECİNİZE ISMARLAMANIZI RİCA EDİYORUZ.

Unutmayınız ➡ 10 MART

ARİSTOKRATLAR I

AH, YAPILACAK BİR KEŞİF KALMADI!

EVET, GERÇEKTEN MONOTON BİR GÜN... HEYECAN VERİCİ HİÇBİR ŞEY YOK!

MİKE DE HİÇ TELEFON ETMEDİ!

HİÇBİR OLAY KOKUSU YOK!

KOCAMAN BİR **HİÇ** VAR.. SIKINTIDAN BAŞKA ŞEY YOK!

AZ İLGİNÇ BİR-ŞEY DE OLABİLİR!

ALLAH RAHMET EYLESİN.. BÜYÜK ANNEM, CANIM SIKILINCA BANA ANLATIRDI...

AMA ARTIK BÜYÜDÜK.. "KIRMIZI BAŞLIKLI KIZ VE KLİRT" SİZİ İLGİLENDİRMESE GEREK...

AMA AMCA, BİZE ANLATACAĞINA SÖZ VERDİĞİN BİR HİKAYE VARDI.. HATIRLIYOR MUSUN?

HAYIR!.. HATIRLAMIYORUM...

AH, AMCA!.. PARİS'TEKİ ANILARINA AİTTİ.. BU ARİSTOKRATLAR GRUBU KURULMADAN ÖNCE...

TANRIM!.. YAŞLI BİR ADAMIN HATIRALARINI DİNLEMENİN ZAMANI MI?

YAŞLI MI? SİZ Mİ?

MERAKTAN ÖLÜYORUZ... İLGİNÇ MİYDİ?

EVET, ÇOCUKLAR..

BENİ OLAYIN TEKNİK YÖNÜ ÇOK İLGİLENDİRİR..

HAYDİ, AMCA!.. ANLAT N'OLUR..

EH ARTIK SİZLERİ REDDEDEMİYECEĞİMİ SANIYORUM... SÖMİNENİN ETRAFINA OTURUN BAKALIM...

O KADAR ZAMAN GEÇTİ Kİ... O ZAMANLAR GENÇTİM VE KENDİMİ DÜNYANIN EN ÖNEMLİ KİŞİSİ SANIYORDUM... BU YÜZDEN DE HEP ARANIYORDUM...

ARANIYORDUM...

OPEN EVERY EVENING AT 7 o'Clock

HEY, DUR!

DUR!.. YOKSA VURURUM

SONUNDA LONDRA'DAKİ HAYATTAN BIKTIM VE YOLCULUĞA ÇIKTIM...

PARİS'İ SEÇTİM.. HEYECAN VERİCİ BİR ŞEHİRDİ BENİM İÇİN...

GERÇEKTEN DE GÜZEL YILLARDI.. HERKES SON DERECE SIKTI..

LİNDERBERG'İN OKYANUSU AŞTIĞI YILLARDA OLDU BU OLAY...

SANATÇILAR, JOSEPHINE BAKER VE MAURICE CHAVALLIER İDİ..

AYRICA, BÜYÜK EKONOMİK KRİZLER DE VARDI TABİİ.. GANGSTERLER BOLDU..

ADIMBAŞI BANKA SOYGUNCULARINA RASTLANIYORDU!

ALLAHTAN PİERROT GİBİ İYİ İNSANLARDA BULUNUYORDU.. ŞİMDİ KİMBİLİR NEREDEDİR?

İLK TANIŞMAMIZI HATIRLIYORUM...

TESADÜF ÇOK BÜYÜKTÜ VE HEMEN ARKADAŞ OLDUK..

ÇOK MÜŞTEREK NOKTALARIMIZ VARDI..

AHH!..

EHM... İYİ..?

FRANSA'YA HOŞ GELDİNİZ..

HOŞ BULDUK..

SÜRSEL GÜNLERDİ.. PİETROT RESİM YAPIYOR, BEN DE KİTAP OKUYORDUM..

GERÇEK BİR BAŞARI RAMBRAND BİLE BUNDAN İYİSİNİ YAPAMAZ..

EVET, ŞİMDİ ONU DEĞERLENDİRMENİN BİR YOLUNU BULMALIYIZ.. EHM...

"BİR ŞEYİ ELDE ETMEK İSTİYORSAN UMURSAMA..." GÜZEL BİR LAF..

ACABA BU SÖZ BÖYLE MİYDİ?..

TABLOYU DEĞERLENDİRMEK BENİM GÖREVİMDİ...

TANRIM, GELDİM..! İŞTE BİZİM ADAM..

HAZIR MISIN DOSTUM?.. GERÇEK TİYATROCU OLMALIYIZ..

MERAK ETME ARKADAŞ..

OOOOPS!

AHH!

DAHA DİKKATLİ OLABİLİRDİN... PARİSTEYİZ, KÖYDE DEĞİL!.. TAŞRALI OLDUĞUMUZU BELLİ ETMESEN...

İYİ... İYİ!..

?

OPSS!..

BAYAĞI SAKAR OLDUN!.

HMM!

FAKAT, SİZ İKİNİZ, DURUN BİR DAKİKA!.

TABAC

BİR GÖZ ATABİLİR MİYİM?

BOŞ VERİN... ATILACAK ESKİ ŞEYLER!..

DOĞRU.. TAVAN ARASINDA DURUYORLARDI... DEDEME AİT... BÖYLE ŞEYLERE BAYILIRDI!.

TABİİ!.. YOK AMA... BİR DAKİKA, BELKİ SİZE BİRŞEY İKRAM EDEBİLİRİM...

BAZILARI MÜŞTERİLERİMİN İLGİSİNİ ÇEKEBİLİR...

SONRA SİZLERİ ÇOK BEĞENDİM... SEMPATİKSİNİZ.. BUNLARI BANA BİN FRANGA SATAR MISINIZ?

AH, AFEDERSİNİZ DEDEMİZİN HATIRASINI SATMAK İSTEMEYİZ..

EVET, İÇİ RAHAT ETMEZ!

HAYDİ UZUN ETMEYİN BEŞ BİN VERİYORUM

DEDEMİN RUHU DİNLER..

ZAVALLI HUZUR İÇİNDE YATMALI...

ANLAŞACAĞIMIZA EMİNİM...

ON BİN

ELLİ BİN...

KUŞURA BAKMAYIN..

ÖZÜR DİLERİZ...

DEDENİZİ DÜŞÜNÜN...

BUNU.....

YETMİŞ BİN DAHA FAZLA VEREMEM..

BÜYÜK DEDEMİN DEDİĞİ GİBİ BİR...

BİR BÜYÜK SÖZ...

BAYLAR PARA HUZUR SATIN ALMAZ...

LİF TAM İKİYÜZ FRANK DELİRMİŞ OLMALIYIM... ÇOK ŞANSLISINIZ..

BAYIM BİZ ZAVALLI KÖYLÜLERİZ, HAYIR DEMEŞİNİ BİLEMEDİK, ZAVALLI DEDEM...

HUZUR İÇİNDE YATSIN...

ALLAHIM GERÇEK BİR RAMBRANT YALNIZ İKİYÜZ FRANGA ALDIM GERÇEK BİR VURGUN

ARKADAŞIM, BAHANEYİ'DİN GERÇEK BİR TİYATRO OYUNCUSUSUN...

İYİDİK POSTUM İYİDİK SENİN PLANIN İYİ İŞLEDİ, ŞAHİTE..

TABLOLARI...

SATTIK..

SİZE BUNUN GİBİ BİNLERCE OLAY ANLATABİLİRİM.. HER SATIŞTAN YÜZDE ON ALIRDIM..

AMA AMCA HİÇ SANA TESİR EDEN BİR MACERA OLMADI MI??

EVET OLAĞANÜSTÜ BİR DURUM OLDU AMA BANA İNANIR MISINIZ BİLMEM...

ANLAT AMCA LÜTFEN..

EVET ÜNLÜLERİN DEDİĞİ GİBİ "ARKADAŞLARDAN BİR ŞEY SAKLANMAMALI.."

UZUN ZAMAN BERİ PİERROT İLE BÜYÜK BİR İŞ TASARLIYORDUK...

SAAT İKİ BUÇUK EVDEN ÇIKIYOR..

HER ZAMAN VAKTİNDE HAREKET EDER

İŞTE VİLAR GANGASTERLER KRALI, PARİSİ HARACA KESİYOR...

FAKİR HALKI SÖMÜRÜYOR..

MAHALLESİNDE SAYISIZ KASALARI VAR AMA ALARM TERTİBATLI...

PROFESYONEL GENÇLİĞİMİN TÜM HEYECANI İÇİNDEYDİM...

ÖYLE...

ARKADAŞ HERŞEYİ ÖĞRENDİK.. ŞİMDİ GERÇEK BİR CENTİLMENİN NE YAPACAĞINI GÖRECEKSİN.

ÇOK İYİ..

O GECE...

KASA VE KAPI AÇMAK HUSUSUNDA TECRÜBELİYİM, BİR İTALYAN BULMAK GEREK...

OH, HERŞEYİ ÖĞRENDİM..

PİERROT YARIN AKŞAM HAREKETE GEÇELİM, İŞTE GEREKENLİ

ALLAHIM NE ORGANİZASYON...

O GECE...

BURASI VİLARIN EVİ DEĞİL Mİ ?..

TABİİ DEĞİL ONA PARALEL BİR KAT...

ALARM BİR DUVARIN İÇİNDEN GEÇİYOR HER ŞEYİ İNCELEDİM..

ALARMI BU ODADAN BOZMAK ÇOK KOLAY OLACAK...

ALLAHIM !..

TELLER KESİLMİŞ!

BAKSANA BAŞKA BİR ŞEY DAHA VAR...

BİR DELİK !..

GALİBA BAŞKA BİRİDE BİZİM DÜŞÜNDÜĞÜMÜZÜ DÜŞÜNDÜ BİZDEN ÖNCE DAVRANDI...

BİR ÜNLÜNÜN DEDİĞİ GİBİ "BALOYA GİDİNCE DANS EDİLİR." YOLA DEVAM...

HAYDİ DOSTUM.

Devamı var

TELE KUTU OYUNU

5. HAFTA OYUNUMUZA

BU HAFTA 7 BOŞ KUTUMUZ VAR

7 KİŞİYE 7 HARİKA ARMAĞAN

SİZİN İÇİN...

1 adet Altın uçlu dolma kalem — DEĞERİ 325 LİRA
1 adet Yürüyen sıpa — DEĞERİ 650 LİRA
1 adet Konuşan kuklalar — DEĞERİ 100 LİRA
1 adet Kont — DEĞERİ 200 LİRA
1 adet Futbol topu — DEĞERİ 75 LİRA
1 adet Toroman — DEĞERİ 120 LİRA
1 adet Akıllı Bıdık — DEĞERİ 30 LİRA

AYRICA dolu kutularda **11 Kutu SULUBOYA var!**

Gelecek hafta yeni oyun

HOŞ GELDİNİZ...



NE YAPACAKSINIZ?

Oyunumuz çok kolaydır. Yukarıda gördüğünüz dairelerden yedi tanesi boş, öbürleri doludur. Boş olan 7 kutuda birer tane harika armağan, geri kalan ve dolu dediğimiz onbir kutuda ise onbir adet 12 renkli sulu boya vardır.

Yedi harika armağandan herhangi birini kazanmak için herhangi bir boş kutuyu bulmanız gerekli. Şimdi elinize bir zarf alın, zarfın arkasına adınızı, adresinizi yazın. Boş olarak tahmin ettiğiniz kutunun numarasınıda büyük olarak yazın. GELECEK SAYIMIZDA YAYINLAYACAĞIMIZ YARIŞMA KUPONUNU KESİP ONU DA ZARFIN ARKASINA YAPIŞTIRIN. Ve zarfımızın ön tarafına

Milliyet Çocuk Dergisi
Nuruosmaniye 65/67
Cağaloğlu-İstanbul

adresimizi yazıp 3 NİSAN GÜNÜNE KADAR BİZE GÖNDERİN. DİKKAT, gelecek sayımızın arka kapağında yayınlayacağımız kuponu zarflarınıza mutlaka yapıştırın. Yoksa oyunumuza katılamazsınız. Boş daireleri bulanlar birden fazla olursa, aralarında kura çekilir ve kazanan okurumuza armağanı verilir. Diğer armağanlar için de aynı işlem yapılır.

Dikkat

KATILMAK İÇİN ZARFINIZI EN GEÇ 3 NİSAN GÜNÜNE KADAR BİZE GÖNDERİN

10 MART ÇARŞAMBA GÜNÜ MİLLİYET ÇOCUK DERGİSİ'Nİ MUTLAKA ALIN.

BAK AHBAP!.. KÖPEKLERİNE SAHİP OL, YOKSA KÖTÜ BİR DERS VERİRİM SANA..

NE İSTİYORSUNUZ ALLAHAŞKINA?

BATININ SAHİBİ Mİ OLDUĞUNUZU SANIYORSUNUZ?

BİZ TUZAKÇIYIZ VE TUZAKÇILARIN YASASINA UYULMASINI İSTİYORUZ..

SANA GEREKLİ OLANI KAPARINI AL VE YAŞAMAK İSTİYORSAN ONLARLA YETİN..

BİZ DE ZATEN BİZE LAZIM OLANINI İSTİYORUZ...

HAYIR! SİZ KATLİAM YAPIYORSUNUZ! HERKES BÖYLE YAPSA KASTORUN KUYRUĞU BİLE KALMAZ!

SÖYLER MİSİNİZ LÜTFEN? NEREDE YAZILI BU TUZAKÇILARIN YASASI?

BURADA, TÜFEĞİMİN NAMLUSUNDA...

LOGAN, BOSVER!.. BİZ KOSTORLARIMIZI ALALIM VE GİDELİM..

EVET, BENCE DE..

NE DÜŞÜNÜYORSUN?

SENİN DÜŞÜNDÜĞÜNÜ..

GİTMELERİ NUMARA DEĞİLMİ?

DÖNECEKLER VE KÖTÜ DÜŞÜNCELERLE OKEY..

OKEY!..

GERÇEKTEN DE...

NİYE DURDUN?

ÇÜNKÜ GİTMEYE HİÇ NİYETİM YOK!

NE YAPMAK İSTİYORSUN?

BİRKAÇ GÜN BEKLEYELİM.. O İKİ TUZAKÇI GİTTİKTEN SONRA AVIMIZA DEVAM EDERİZ..

KENDİLERİNİ KURNAZ SANIYORLAR LOGAN'IN YOLUNA ÇIKMAK TEHLİKELİDİR..

OKEY VE BEN HİÇTE KURNAZLIK İDDİASINDA DEĞİLDİK.. YALNIZ DİKKATLİ VE İŞİNİ BİLEN VE ANLAŞAN İKİ ARKADAŞTIK.. ÖNCE KASTORLARIN YUVALARINI YENİDEN KURMALARINA YARDIM ETTİK.. VE LOGAN'DAN GELEBİLECEK HER TÜRLÜ TEHLİKEYE KARŞI UYANIK OLMAYA ÇALIŞTIK..

BU GECE GELİRLER!..

BEN DE ÖYLE DİYORUM..

O HALDE UYUMAYA GİDELİM...

OKEY, GİDELİM.

GECE OLUNCA...

UYUYORLAR! ATEŞLERİ SÖNMÜŞ!

HAREKETE GEÇELİM.

HÜCUM!

HAYDİ!

ÖL.

ÖLEM...

ALLAHKAHRETSİN!

BİZE OYUN OYNADILAR!

YERE YATIN! KÖTÜ BİR HEDEF OLABİLİRİZ..

NEREYE SAKLANDI BUNLAR?

HAYDİ!.

OKEY!..

CRA SCH H!

DİKKAT!..

KAÇALIM!.. EZİLECEĞİZ!.

İMDAAAT!..

UHAAMNN

SADECE ONLARI DURDURMAK İÇİN BİR OYUNDU HALBUKİ...

EVLERE SERVİS YAPALIM MI?

TABİİ, AMA ÇIPLAK AYAKLA!..

BU BARBARLIK!..

DOSTUM... BU SADECE ZARARSIZ BİR OYUN.. HELE SENİN YAPTIKLARINA KIYASLA!..

BARI, ATLARIMIZI VE KÖPEKLERİMİZİ VERİN...

SİZİ GÖNDERDİĞİMİZ YERDE BULACAKSINIZ ONLARI...

GİDECEKLERİ YER, 90 MİL UZAKTA...

DAHA İNSANCIL VE DAHA AZ TEHLİKELİ BİR YOL BULMAK İÇİN VAKİTLERİ OLACAK BÖYLECE..

AVCILIKTA ZALİMLİK ETMEK OLMAZ... HAYVANLARIN VE BİTKİLERİN HAYAT KAYNAĞI OLDUKLARINI AKILDAN ÇIKARMAMAK GEREKİR..

EE, DOSTLAR!.. SİZ NE DİYORSUNUZ BU İŞE?.. ÇOK MU ZALİMCE DAVRANDIK ONLARA? SANIRIM Kİ HAYIR!.

SON

Kaptan Cingöz

GEMİDEKİ ÇEŞİTLİ ARIZALAR YÜZÜNDEN CİNGÖZ VE ARKADAŞLARI **TÖRTÜ** ADASININ KUZEY TARAFINDA BİR KOYA SIĞINMAK ZORUNDA KALMIŞLARDI...

ŞU TAMİRAT İŞİ NE ZAMAN BİTER ??

VALLA BELLİ OLMAZ Kİ...

KAPTAN BENİ DİNLER-SEN BU İŞ BİR SABOTAJ! ANDIRIYOR... BİRİLERİ BİZİM YOLA ÇIKMAMIZI GECİKTİRMEK İSTİYOR...

SABOTAJ MI DEDİN ?! NE DEMEK O ??

!

BAKSANIZA HALATLAR EN CAN ALICI YERLERİNDEN KESİLMİŞ... GÖREVİMİZİ YAPMAYI ENGELLEYENLER VAR...

GERÇEKTEN DE O SABAH, TÖRTÜ ADASINDA BULUNAN KORSANLAR ŞEFİ, BİR KAVGADA ÖLEN KAPTAN FİNT'İN SERVETİNİ PAYLAŞTIRMIŞ. CİNGÖZDEN DE KAPTAN LAMEDEFON'UN PAYINI ONA GÖTÜRMESİNİ İSTEMİŞTİ...

!

EH! EH!...

KAPTAN CİNGÖZ, YALNIZ SEN VE ARKADAŞLARIN İNGİLİZLERE ÇAKTIRMADAN BU SERVETİ LAMEDEFON'A ULAŞTIRABİLİRSİN

YANİ ARAMIZDA BİR HAİN Mİ VAR ARKADAŞLAR ? OLAMAZ BU !..

TORTU ADASINDAN AYRILMADAN ÖNCE BİRİ GİZLİCE GEMİYE GİRMİŞTİR !

ÖYLEYSE, HERKES EN GİZLİ KÖŞELERE KADAR ARASIN GEMİYİ !..

AKILLICA BİR DAVRANIŞ !..

DERHAL BÜTÜN ADAMLAR GEMİNİN HER YERİNİ DIDIK DIDIK ARAMAYA BAŞLADILAR...

BUNUN İÇİ DE BOŞ...

HU... HU... ORADA MISIN ?!

HAYDİ NAZLANMA DA GÖSTER YÜZÜNÜ GÜZELİM... BİRAZ EĞLENELİM SENLE...

BAK ŞU İŞE... BU FİCİ KENDİ KENDİNE GELMİŞ OLMALI...

O ANDA, BİZİM UYANIK, DAVETSİZ MİSAFİRLE TANIŞTI...

SPONG

BU BACAKSIZLAR ELİNDE SONUNDA BENİ BULACAKLAR GALİBA...

İŞARET VERMENİN ZAMANI GELDİ DE GEÇİYOR BİLE !..

KAPTAN !... OLDU BU İŞ.. DÜZTABAN İŞARET VERİYOR, GİDELİM Mİ ?!

TAM ZAMANIYDI... HAYDİ !

GÜRÜLTÜ YAPMAYIN HA... KEKLİK GİBİ AVLARLAR BİZİ SONRA...

KEKEME GÖZLEMECİ GERÇEKTEN HİÇ BİR ŞEY DUYMAMIŞTI... BELKİDE DİKSİYON DERSLERİNİ DÜŞÜNÜYORDU O SIRA...

GÖRDÜNÜZ YA!. HER YERE BAKTIK.. **HİÇ KİMSECİKLER YOK!.**

HİÇ BİRŞEY ANLAMIYORUM... İPLER KENDİ KENDİNE KESİLMEDİ YA...

BİZİM UYANIK'A BAKIN!. YİNE UZANMIŞ BİR SEKSEN HER ZAMANKİ GİBİ...

UYANIK UYUMUYOR Kİ... BİRİ SALDIRMIŞ ONA...

YUMURCAK DOĞRU SÖYLÜYOR.. EĞER GÜCÜMÜ BİLEN VARSA, NELER OLACAĞINI BİLEBİLİR!.

DÜZTABAN!.. UĞURSUZ BAŞ BELASI.. DEMEK HERŞEYİ YAPAN SENSİN

HAYIR SEVGİLİ MİNİKLER.. OYUNCAK YELKENLİNİZİN İPLERİNİ BEN KESTİM.. BANA FAZLA GÜCENMEDİNİZ YA?? HII ??

VAY **TÜYSÜZ!..** SENİ ÇOKTAN BİR İPİN UCUNDA SANIYORDUK...

EEE, N'APARSIN... HER ÜMİDEDİLEN OLSAYDI!.

BA.. BABAK... SSSUISSSE... KAKA LABABA... BALIK VAAR GE GEMİ... MİDE..

HOHOŞ... GE GEL... DİDİN DEME... MELİ.. HEHEP HEPSİ... NENE..

SONG

DÜZTABAN ŞİŞEYİ İLK YİYEN OLDU..

BİR ŞİŞE SUYLA KENDİNDEN GEÇTİ!.

AA.. AFER.. FERM.. KEKE.. MEKE.. SEN.. SEN.

SEN DE Mİ KEKELİYORSUN..

BENİ DE BEKLEYİN BEKLESENİZE YAHU..

HAYIR.. BENİ RAHATLIKLA ANLASIN DİYE KEKELİYORUM SADECE...

BU ÖNEMSİZ OLAY SIRASINDA TÜYSÜZ'DE SIRASINI SAVDI..

NE YAZIK Kİ ÖTEKİLER GELMİŞTİ...

KOLAY GELSİN CİNGÖZ.. TAYFALARIMLA İYİ EĞLENDİNİZ Mİ BARİ ?

HAY SEYTAN

!!

KÜÇÜK KORSANLARIMIZ KAHRAMANCA KARŞI KOYDULAR AMA...

PAN

HAYDİ KÜÇÜKLER, BOŞUNA BİZE KAFA TUTMAYIN.. BİZ SİLAHLIYIZ, SİZİNSE SİLAHINIZ YOK..

KAPTAN CİNGÖZ, BANA HAK VERMELİSİN... ELBETTE, BENİM İHTİYACIM VARKEN KAPTAN FİNT'İN MİRASINI KAPTAN LAMEDEFON'A GÖTÜRMENE RAZI OLAMAZDIM, Dİ Mİ AMA ?? BİRAZ ENAYİLİK OLURDU BU !..
DÜŞÜNEBİLİYOR MUSUNUZ ? SANDIK DOLUSU SERVET, KAPTAN KÖŞKÜNDE, BİR ÇUVAL PARÇASININ ALTINDA GİZLENMİŞTİ ! HAH.. HAA !..
HAYDİ EYVALLAH ÇOCUKLAR... BENİ BOŞUNA YAKALAMAYA ÇALIŞMAYIN, E Mİ ?? SİZ GEMİNİZİN KESİK HALATLARINI TAMİR EDERKEN, BEN ÇOKTAN YEPYENİ GEMİMLE UZAKLAŞMIŞ OLACAĞIM...
AH AH AH AH AH AH AH
KORSANLAR DAHA YENİ UZAKLAŞMIŞLARDI Kİ, CİNGÖZ'ÜN GEMİSİNDEN BİR KAHKAHA TUFANI YÜKSELDİ !..
AFERİN BE... YENİLGİLERİNE RAĞMEN GÜLECEK GÜCÜ BULUYORLAR KENDİLERİNDE... AH ŞU GENÇLİK YOK MU...
AH AH AH AH AH AH AH AH AH AH AH AH
HAYDİ ÇOCUKLAR... BİR AN ÖNCE KAPTAN LAMEDEFON'U BULMAK İÇİN YOLA KOYULMALIYIZ...
Bİ... BİR... GE... GEMİ... VAR... UU... UF... UFUK'DA !..
İŞTE BU İYİ... GELEN KAPTAN LAMEDEFON, ÇOCUKLAR...

KAPTAN LAMEDEFON, BİZDE SİZİ ARIYORDUK... KAPTAN FİNT'TEN KALAN MİRASI SİZE ULAŞTIRMAK ÜZERE BİZE TESLİM ETTİLER...
AÇIK DENİZDE KARŞILAŞTIK.. YANAŞIYORUZ ÇOCUKLAR, BEKLEYİN...
FİNT'İN SERVETİ BU PATATES ÇUVALLARINDA MI ??
BU SIRADA KORSANLARIN GEMİSİNDE SANDIKLAR AÇILIYORDU...
ÇABUK SANDIKLARI AÇIN DA GÖRELİM BAKALIM, ŞU FİNT, PİS LAMEDEFON'A NE SERVET BIRAKMIŞ?
PATATESLER !..
SANDIKLAR AĞZINA KADAR PATATES DOLU !..
ŞEYTAN CİNGÖZ YİNE BANA BİR OYUN OYNADI !..
KIZGINLIĞINDAN PATLAMAZSA İYİDİR...
ŞU KARŞIDAKİ ŞİŞKO'NUN KORSAN GEMİSİ Mİ ?? EH, KAPTAN BU ÖĞLEN PATATES KIZARTMASI MI YİYECEKSİN ?? KIZARMIŞ PATATESİN KOKUSU ŞİMDİDEN ETRAFA YAYILMAYA BAŞLADI...
ATEEES !..
SÜREKLİ ATEŞE TUTUN ŞUNLARI !..
AH AH AH
BU SERVETİN BİZİMLE YOLA ÇIKTIĞINI BİLİYORLARDI... TORTU ADASINDA SANDIKLARI YÜKLER YÜKLEMEZ, BU YÜZDEN ALTINLARI PATATES ÇUVALLARINA DOLDURDUK... PATATESLERİDE SANDIKLARA TABİİ... BÖYLECE SERVETİNİZİ KURTARDIK KAPTAN...
HA... HA... HA... HA... AFERİN CİNGÖZ, BİZİM ŞİŞKO PATATESLERİ KOLAY KOLAY HAZMEDEMİYECEK..
KAPTAN BİZDEN ÇOK UZAKLAŞTILAR... TOPLARIMIZ GÜÇLÜ DEĞİL, ONLARA YETİŞEMEZ... NEYLE ATEŞ EDECEĞİZ ??
NEYLE Mİ ?? TOPLARA PATATES KOYUP ATEŞLEYİN SİZ DE... DURMAYIN...
SON

DEVLET HAZİNESİNDEKİ ALTINLARIMIZ

Devlet hazinesinde bulunan altın liralarda Almanya'dan getirtilen ve fabrikasının sekiz adet yaptığı dünyanın en hassas terazilerinden biri olarak bilinen bu terazide tartılır.

Devlet hazinesini koruyan büyük otomatik kasanın kapısı bu üç kişinin bir araya gelmesiyle açılır. Bilyalı yatak üzerine oturtulan 40 ton ağırlığındaki çelik kapı çok az bir kuvvetle açılır ve yangından etkilenmez.

Bir ulusun parasının değeri devlet hazinesinde saklanan altın külçeleriyle ölçülür. Günlük kullandığımız kâğıt paraların altın olarak karşılığı devlet hazinesinde yoksa o paranında değeri yok demektir.

Başkentimiz Ankara'da Merkez Bankasının büyük çelik kasalarında Türk parasının değerini ve satın alma gücünü ortaya koyan tonlarca altın saklanmaktadır. Devletin hazinesi kasa dairesinin anahtarları sorumluluğuna verilmiş üç kişinin bir araya gelmesiyle açılır. Almanya'ya ısmarlama olarak yaptırılan bu dev kasa daha Merkez Bankasının temelleri atılırken getirilerek bugünkü yerine yerleştirilmiştir. Devlet hazinesinin çelik kapısı açılacağı zaman anahtarları muhafaza edenler önce bir heyet önünde kasadaki mühürü açarlar. Daha sonra kasadaki üç kilit ayrı ayrı anahtarlarla açılarak devlet hazinesinin içine girerler.

İnsanoğlunu asırlardan beri etkileyen altın dünyanın en kıymetli madenlerinden biridir. İlk çağlardan beri insanoğlunun yaşantısının bölünmez bir parçası olmuştur. Altın doğada, doğal bir halde bulunduğu yumuşak ve dövülgen olduğu için insanın kullandığı en eski madendir.

Bu bakımdan çok eski çağlarda kuyumculuk adını verdiğimiz sanat dalıda doğmuştur. Altının değer ölçüsü olarak kullanılması Milattan Önce 2 bin yılına kadar dayanır. M.Ö 7. Yüzyılda altından ilk parayı "Lidyalılar" basmışlardır. Altının insanlar arasında değer kazanmaya başlamasından sonra Altın ve Gümüş ekonomisi zaman zaman insanların hayatını alt üst etmiştir. Altın artık günümüzde bir politika aracı haline gelmiş bulunmaktadır. 1929 yılında patlak veren ekonomik bunalımdan sonra dünyanın her tarafında altın paraların yerini kâğıt paralar almaya başlamış bulunmaktadır.

bulmaca bilmece eğlence

Yorgun yolcu düzlüğe çıkmak istiyor. Devesi bir yol düşünüyor fakat bulamıyor. Ona yardım edin...





Üç çizgi ile bu kareyi dört parçaya ayırın ve her parçada 1 kare, 1 üçgen ve 3 siyah daire olsun...

Noktalı yerleri boyayın ve tabloyu meydana çıkarın...

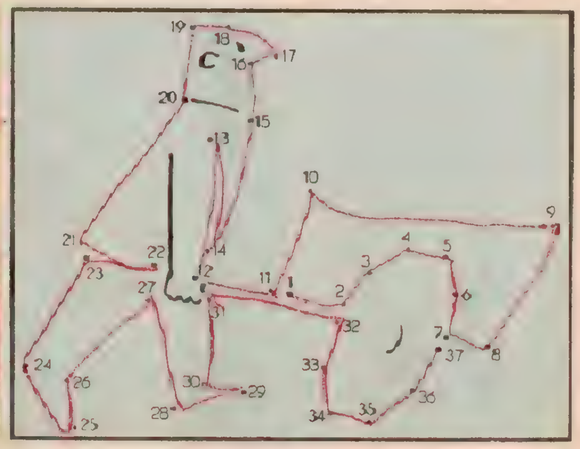

Noktaları 1'den 37'ye kadar birleştirin

Farenin çevresindeki şeyi merak ediyorsanız nokta - ları 1'den 35'e kadar bir - leştirin.

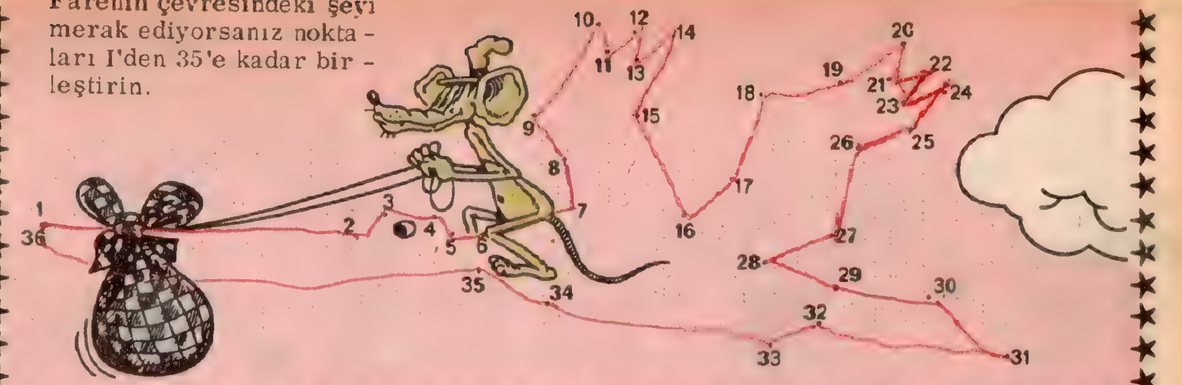

Çiçeğe gitmek isteyen uç-uç böceğine yardım edin...



İki kuşun dolaştıkları yerler daire ve üçgen şekillerle ayrılmış. Kuşlar birbirlerinin yolunu kesmeden, nasıl dolaşıyorlar?



4 PARÇAYA BÖLÜNEN KARE

KUŞLAR

CEVAPLAR

AGAR BÜYÜLÜ OYUNCAKLAR

İŞTE ORDA!.. YER ALTI KENTİNE KAÇIYOR!

TAMAM!.. ŞİMDİ GELİP İŞİMİ BİTİRİRLER!.

HEY!.. ÇABUK BENİMLE GEL!

ÇABUK OL SERSEM! GİDELİM!

BIRAK ONU ŞİMDİ!. AMA ÖNCE KATIL..

ÇABUK, SURADAN KAÇALIM!.

BURADA BİZİ RAHATSIZ EDEMEZLER... BENİM ADIM **ZARRA**... SENİN Kİ NE?

SKORPİA GEZEGENİNDEN **AGAR**. TABİ, EĞER HARİTASINDAN SİLİNMEDİYSE!.

ZOMBLAR SİZE DEMİ GELDİLER?

YA, ÖYLE OLDU!.

AGAR, BURAYA GELMENE ÇOK SEVİNDİM.. BÖYLECE İKİMİZ KARDEŞLERİMİZİN, DOSTLARIMIZIN, HALKLARIMIZIN ÖCÜNÜ ALABİLİRİZ.

BİZ Mİ?..

FAKAT ZOMBLARA SALDIRMAK ÇILGINLIK OLUR!. ONLAR BÜTÜN GÜNEY GALAKSİSİNİN TEK EFENDİLERİ!.

HAYIR, AGAR!. ASIL EFENDİ, BİZİ YOKETMELERİ İÇİN ONLARI YARATAN ADAM OYUNCAKÇI... O ÇELİK CANAVARLARIN BİZİM YERİMİZİ ALMALARINI İSTİYOR...

FAKAT SEN KOMPARA NASIL GELDİN?

KIRIK DÖKÜK, ESKİ BİR UZAY GEMİSİYLE!. ZAVALLICIK BURAYA İNERKEN SON NEFESİNİ VERDİ...

NE YAPALIM... BİZDE BÜTÜN BU ZOMBLARI YOK ETTİKTEN SONRA ONLARIN DEV KUŞLARINDAN BİRİNİ ÖDÜNÇ ALIRIZ..

NEE?!

SAKIN AKLINI KAÇIRMIŞ OLMAYASIN, ZERRA?

PEKALA AGAR... BEN DE YALNIZ GİDERİM...

BENİ BEKLE ZARRA!..

AH, DEMEK GELMEYE KARAR VERDİN!.

İŞTE PLÂNIM.. SURADAKİ YUVARLAK KUTULARI GÖRÜYOR MUSUN

(*Devamı var*)

ÇOCUK DERGİSİ

bir duvar kaplayacak

Fenerbahçe dev posterini

sizin için hazırlıyor

Sevgili Okurlar,
Resimle romanlarıyle, genel kültür konularıyle 7'den 70'e tüm okurlarının büyük sevgisini kazanan derginiz, Fenerbahçeli ve tüm sporsever okurlarına bir armağan sunuyor. 28 Nisan, 5 Mayıs, 12 Mayıs ve 19 Mayıs çarşamba günlerinde alacağınız derginiz içinde Fenerbahçe'nin insan boyundanda büyük renkli, ofset baskılı dev posterini bulacaksınız...

ÖRÜMCEK ADAM







(Devamı var)

GELECEK SAYIMIZDA

4 TAM MACERA

ÇAKAL BİL

KAYGISIZLAR

ALBAY BUM

PEMBE PANTER

ÇOK... SEVECEKSİNİZ...

PAN PAN PAN PAN PAN

KAMP!.. KAMPA SALDIRIYORLAR!..

PAN PAN PAN

EEE, NE VAR YANİ, NE OLUYOR?..

DURUNUZ, TİNTİN!..

PAN

DURUNUZ!.. BUNA KARIŞMAYINIZ.. BAŞINIZ BELAYA GİREBİLİR VE..

PAN

PAN PAN PAN

DAYANIN ÇOCUKLAR, GELİYORUM!..

POF PAF PAF POF POF POUF TAC TAC TAC TAC TAC TAC

?

YETER!

HEY, ÇOCUKLAR!.. GENERAL!..

GENERAL Mİ?

HA!.. EVET, GENERAL!.. YAŞASIN GENERAL!..

YAŞASIN GENERAL Mİ?..

GÜNAYDIN, JEF!.. BİZ DE... HIK... BİRBİRİMİZE NE OLDUĞUNU.. HIK.. SORUYORDUK

EVET... ÇOK... HIK KAYGILIYDIK!..

İŞTE BUNUN İÇİN BİRER KADEH İÇTİK!..

EVET... KAYGILI OLDUĞUMUZU UNUTMAK İÇİN.. HIK!

FAKAT MADEM Kİ ŞİMDİ BURADASIN... İÇİMİZ RAHAT ETTİ!..

HEM DE TAMAMEN!..

BİR KADEH DAHA ÇEKECEĞİZ.. DÖNÜŞÜNÜ KUTLAMAK İÇİN... DEĞİL Mİ, ÇOCUKLAR?..

HİPS!

YETER!.. İLK İÇENİ TEPELERİM...

AYAKLANMA YAPMAK BU HA!.. BIRAKINDA GÜLEYİM... TAVŞAN POSTU İÇİNDE AYAKLANMACILAR... İŞTE SİZ BÖYLESİNİZ... AÇINACAK AYYAŞLAR! VİSKİ FIÇILARI!.. TOPİYOKACI BOZUNTULARI!..

HIK!

HİPS!

HEMEN KIŞLALARINIZA DÖNÜNÜZ! ÇEYREK SAAT SONRA SAVAŞ GİYİMİYLE TOPLANILACAK.. KOŞUN!..

HİPS!

IK!

GÖRDÜNÜZ MÜ?

YAZIK Kİ, EVET!..

AH!.. TAPİYOKA PARAŞÜTLE VİSKİ İNDİRME OYUNUNU BAŞARDI... BİR ZOM OLMUŞ HERİFLER SÜRÜSÜYLE BİR AYAKLANMA NASIL YAPILIR?

ALKAZAR!.. ANCAK ŞİMDİ Mİ GERİ DÖNÜYORSUNUZ?

AY!..

40

DEVAMI VAR

Bilgi Kültür testi

Milliyet Gazetesinin her yıl düzenlemekte olduğu Türkiye İlkokullararası Bilgi ve Kültür Yarışması bu yıl 11 yaşına basmıştır. Yarışmaya 1966 yılından beri katılıp şampiyonluklar alan öğrenciler başarılarını devam ettirmiş ve hemen hemen sınıflarını hep birincilikle geçmişlerdir.

Milliyet gazetesinin bu yarışmasına katılıpta diğer dereceleri alan öğrenciler de halen İtalyan Lisesi, İzmir Özel Erdem Koleji, Ankara Selen Koleji, İstanbul Özel Kalamış Lisesi, İstanbul Işık Lisesi, Bursa Özel Koleji ve Bursa Özel İhsan Çizakça Kolejlerinde burslu olarak başarılarını devam ettirmektedirler.

Milliyet Gazetesinin bir gelenek haline getirdiği İlkokullararası Bilgi ve Kültür Yarışması bu yıl bütün Türkiye'de 25 Nisan günü yapılacaktır. Milliyet Gazetesinin bu büyükyarışmasına katılacak okul ve öğrencilerin daha iyi hazırlanmaları için 176. sayımızdan itibaren son 5 yılın test soru ve cevaplarını yayınlamaya başladık. Her hafta 80 soruluk bölümler halinde yayınlanacak bu testlerin sadece Milliyet yarışmasına değil giriş sınavlarına da bir hazırlık olduğuna inanıyor ve 1971, 1972 yılı eleme testlerinden sonra bu sayımızda 1973 yılının 80 sorusunu yayınlıyoruz.

Test çözümü için bir örnek verilmiştir. Örneğe göre cevaplarınızı A, B, C, D harflerinin karşısına bir çarpı koyarak veriniz.

ÖRNEK: 1

Alanı 400 metrekare olan bir arsanın metrekaresi 10 liradan satılmıştır. Arsa için verilen para kaç liradır?

(A) 400
(B) 1000
(C) 2000
(D) 4000

	(A)
	(B)
Bu sorunun doğru cevabı 4000'dir.	(C)
	✖ (D)

SORULAR:

1. Aşağıdaki cümlelerden hangisinde, dahi anlamına gelen "de" ayrı yazılması gerekirken bitişik yazılmıştır?
(A) Gözden ırak olan gönüldende ırak olur.
(B) Her yiğidin gönlünde bir aslan yatar.
(C) Yüksek yerlerde hem yılana hem kuşa raslanır.
(D) Güzelliği, kişilerin kalbinde aramalıdır.

2. Anadolu'da yapılan kazılarda, Firigya'lılara ait kültür ve sanat eserlerinin bulunduğu yer, aşağıdakilerden hangisindedir?
(A) Alacahöyük
(B) Kültepe
(C) Truva
(D) Gordiyon

3. Vitaminler bize hangi faydayı sağlar?
(A) Enerji verir
(B) Vücudu büyütür ve onarır
(C) Hastalıklardan korur
(D) Vücuttaki zehirli maddelerin etkisini azaltır.

4. Aynı büyüklükte iki kare yanyana konulunca bir dikdörtgen meydana geliyor. Karenin bir kenarı 40 cm. olduğuna göre, dikdörtgenin çevresi kaç santimetre olur?
(A) 160
(B) 240
(C) 280
(D) 320

(5.9. SORULAR AŞAĞIDAKİ PARÇAYA GÖRE CEVAPLANDIRILACAKTIR.)

Organizmanın belirli aralıklarla dış uyarımlara karşı kapanışı, uyku dediğimiz durumu meydana getirir. Uyku durumuna organizmanın bütün kısımları katılır. Kas çalışmaları durur, dış uyaranlar kabul edilmez. Solunum, kan dolaşımı yavaşlar. İç salgı bezlerinin faaliyetleri yavaşlar veya durur.

Uykunun amacı, sinir sistemine gerekli olan dinlenmeyi sağlamaktır. Bunu sağlamak için de dış dünya ile vücudun ilgisi en az dereceye indirilir.

Uyanık olduğumuz bazı anlarda da dikkatimizi belirli bir nokta üzerine toplamışsak birçok uyaranların etkisini duyamayız. Örneğin; kitap okurken radyonun sesini duyamayışımız gibi. İşte, bu çeşit bir duraklamanın bütün beyin alanına yayılışı uykudur. Dış dünyadan gelen uyaranların ortadan kaldırılması orta beyinde bulunan uyku merkezinin görevidir.

Bazı durumlarda, uyku sırasında gelen uyaranlar beyin tarafından dikkate alınmadığı halde uyku organları bir emniyet tedbiri olarak bunları alır. Örneğin, evin içinde olan bir tıkırtının bizi uyandırması bu yüzdendir. Uyku merkezinin bu özelliğinden faydalanılarak modern tıp biliminde bir takım hastalıkları, uyurken tedavi etmek ve modern eğitim tekniğinde bazı zor şeyleri kişiye uyurken öğretmek gibi çalışmalar vardır.

5. Parçaya göre uykunun amacı aşağıdakilerden hangisidir?
(A) Dış dünya ile ilgiyi azaltmak
(B) Solunum ve kan dolaşımını yavaşlatmak
(C) Sinir sisteminin ihtiyaç duyduğu dinlenmeyi sağlamak
(D) Vücudumuzun uyku ihtiyacını gidermek

6. Uyanık olduğumuz halde bazı durumlarda sesleri neden duyamayız?
(A) Bu sırada uyku organları çalışır durumda olmadığından
(B) Uyku organları emniyet tedbiri aldığından
(C) Dış dünyadan gelen uyaranları her zaman alamadığımızdan
(D) Dikkatimizi bir noktaya topladığımızdan.

7. Parçaya göre aşağıdakilerden hangisi uykunun tanımıdır?
(A) Bir süre için iç salgı bezlerinin çalışmalarının yavaşlaması
(B) Vücudun belirli sürelerle dış uyarımlara karşı kapanışı
(C) Dış dünyadan gelen bazı uyaranların vücut tarafından alınmaması
(D) Uyku merkezinin belirli zamanlarda çalışmaması.

8. Uyku merkezinin görevi, aşağıdakilerden hangisidir?
(A) Dışardan gelen uyaranları ortadan kaldırmak
(B) İç salgı bezlerinin çalışmasını yavaşlatmak
(C) Uyku organlarını emniyete almak
(D) Dikkatimizi belirli bir nokta üzerinden çekmek

9. Parçaya göre, eğitimde kişiye zor gelen şeyleri uykuda öğretme çalışmaları neye dayanır?
(A) Uyku sırasında dış dünyadan gelen bütün uyaranların kaldırılmasına
(B) Uyku sırasında bir duraklamanın beyne yayılmasına
(C) Uykuda gelen bazı uyaranların, uyku organları tarafından alınmasına
(D) Uykuya organizmanın bütün kısımlarının katılmasına

10. Aşağıdaki komşu gruplarından hangisi, dünyanın en çok petrol elde edilen ülkelerindendir?
(A) Yunanistan, İran, Irak
(B) Irak, Kafkasya, İran
(C) İran, Bulgaristan, Yunanistan
(D) Kafkasya, Yunanistan, İran

11. Aşağıdaki maddelerden hangisi mıknatıslanır?
(A) Nikel
(B) Çimento
(C) Bakır
(D) Kalay

12. Saat 2'de, akrep ile yelkovan arasındaki açı kaç derecedir?
(A) 10
(B) 30
(C) 45
(D) 60

13. Kaymakam, aşağıdaki dairelerden hangisinin denetimini yapamaz?
(A) Mal Müdürlüğü
(B) Hükûmet Tabibliği
(C) Tekel İdare Memurluğu
(D) Askerlik Şubesi

14. Su ile dolu bir havuzun dibinin yakın görünmesinin nedeni aşağıdakilerden hangisidir?
(A) Işığın yansıması
(B) Işığın kırılması
(C) Işığın dağılması
(D) Işığın doğru yolla yayılması

15. Bir ikizkenar üçgende, taban açılarından biri tepe açısından 15 derece büyük olduğuna göre bu üçgenin tepe acısı kaç derecedir?
(A) 45
(B) 50
(C) 55
(D) 75

16. "İnceleme ve deneylerden sonra bilim, bugünkü durumuna ulaşmıştır." cümlesinin öznesi aşağıdakilerden hangisidir?
(A) İnceleme
(B) Deneylerden
(C) Bilim
(D) Durumuna

17. Büyük Millet Meclisi, Mustafa Kemal'e Gazilik ünvanını hangi savaşın sonunda vermiştir?
(A) Sakarya
(B) Dumlupınar
(C) Başkumandanlık
(D) I. İnönü

18. Aşı bize hangi bakımdan faydalı olur?
(A) Hastalık çeşitlerini öğrenmede
(B) Hastalıkları tedavi etmede
(C) Hastalıklara karşı direnme kazanmada
(D) Hastalıkları erken tanımada

19. Dikdörtgen şeklindeki bir arsanın $\frac{1}{100}$ ölçeğine göre planı çizilmiştir. Plândaki bitişik iki kenarın uzunlukları 3 dm. ve 6 dm. olduğuna göre arsanın alanı kaç m2'dir?
(A) 180
(B) 900
(C) 1800
(D) 9000

20. Yavuz Sultan Selim zamanında, Osmanlılarla Memlüklerin arası neden bozulmuştur?
(A) Çaldıran Zaferi, Yavuz yararına sonuçlandığından
(B) Güney-doğu illeri, Yavuz tarafından alındığından
(C) Yavuz'un Suriye ve Filistin'i almasından
(D) Şah İsmail'in Mısır'ı Osmanlı Devleti aleyhine kışkırtmasından

21. Aşağıdakilerden hangisi oksijeni akciğerlerden alıp hücrelere kadar götürür?
(A) Akyuvarlar
(B) Akyuvarlar
(C) Kan sıvısı
(D) Kan pulcuğu

22. Metresi 9,75 liradan 6 metre keten ile, metresi 6,5 liradan bir miktar basma alınarak 149,50 lira ödenmiştir. Buna göre alınan basma kaç metredir?
(A) 9
(B) 12,5
(C) 14
(D) 14,5

23. Yazıda belli bir fikrin açıklandığı ve bir satır başından öteki satır başına kadar süren bölümlere ne ad verilir?
(A) Cümle
(B) Ana fikir
(C) Konu
(D) Paragraf

24. Önem sırasına göre endüstri kuruluşlarının en sık bulunduğu bölgelerimiz aşağıdakilerden hangisidir?
(A) Marmara, Karadeniz
(B) Karadeniz, Akdeniz
(C) Akdeniz, Ege
(D) Marmara, Ege

25. Dünyamızda gece ve gündüz süreleri neden eşit değildir?
(A) Yılın dört mevsim olmasından
(B) Güneşin iki türlü dönme hareketi yapmasından
(C) Ayın dönme ekseninin yörüngesine eğik olmamasından
(D) Dünya ekseninin yörüngesine dik olmamasından

26. Bir palto, bir elbise ve bir çift ayakkabı satın alınarak 1310 lira ödenmiştir. Palto, ayakkabıdan 355 lira, elbise, paltodan 270 lira pahalı olduğuna göre, ayakkabının fiyatı kaç liradır?
(A) 166
(B) 110
(C) 85
(D) 81

27. "Atatürk, Cumhuriyeti Türk gençliğine emanet etti (ı) çünkü siz, Türk ulusunun ümidi ve geleceğisiniz" cümlesindeki (ı) yerine aşağıdaki noktalama işaretlerinden hangisi konmalıdır?
(A) (,) (virgül)
(B) (;) (noktalı virgül)
(C) (.) (nokta)
(D) (:) (iki nokta)

Yukarıdaki harita, nüfusun yeryüzünde dağılışını göstermektedir.

28. Buna göre hangi kısımlar siyahla karalanmıştır?
(A) En tenha
(B) Tenha
(C) Orta derecede nüfuslanmış
(D) En kalabalık
29. Aynı haritada gösterilen 23,5 derece ve 66,5 derece paralelleri arasında bulunan kuşaklar hangileridir?
(A) Soğuk
(B) Sıcak
(C) Ilıman
(D) Çöl
30. F.E.K.M. harfleri ile gösterilen şehirlerden hangisinde güneş en geç doğar?
(A) F
(B) K
(C) E
(D) M
31. Afrika kıtasının kuzey ve güney yarısında iklim ve bitki topluluklarının birbirinin hemen hemen aynı olmasının nedeni aşağıdakilerden hangisidir? (Haritadan da yararlanabilirsiniz)
(A) Kıtanın az engebeli olması
(B) Her iki yarımkürede de uzun akarsuların bulunması
(C) Tam ortasında büyük ormanların bulunması,
(D) Ekvatorun kıtanın tam ortasından geçmesi,
32. Aşağıdaki merkezlerden hangisi omurilik soğanı üzerinde bulunur?
(A) Konuşma
(B) Dolaşım
(C) Görme
(D) Hatırlama

33. $\frac{4}{15}$ kesrinin paydasından hangi sayıyı çıkaralım ki değeri $\frac{1}{2}$ olsun?
(A) 1
(B) 3
(C) 7
(D) 8

34. Aşağıdaki durumlardan hangisinde, düzeltme (Ô) işareti kullanılır?
(A) Özel ismin sonuna getirilen eki ayırmak için ekle özel isim arasında
(B) Başkasından alınan sözü belirtmek için sözün başında ve sonunda.
(C) (k) sert ünsüzüyle biten bir sözcük, ünlü ile başlayan bir ek aldığında (k) ünsüzü yerine geçen (g) yumuşak ünsüzü üzerinde
(D) (k,g,l) ünsüzlerinin bulundukları hecenin uzatılıp inceltilerek okunması için bu ünsüzlerden sonra gelen (a,u) ünlülerinin üzerinde.

35. Aşağıdakilerden hangisi basit makina değildir?
(A) Tahterevalli
(B) Yaylı el kantarı
(C) Makara
(D) Vida

36. Satın aldığı 120 portakalın $\frac{1}{6}$'sını evine götüren bir manav, geri kalan portakalları 9600 kuruşa satarak 2400 kuruş kâr ettiğine göre, portakalların tanesini kaç kuruştan almıştır?
(A) 60
(B) 72
(C) 80
(D) 100
37. Yurdumuzda kanunların uygulanması görevi hangi organa aittir?
(A) Büyük Millet Meclisine
(B) Yüksek Hâkimler Kuruluna
(C) Cumhurbaşkanı ile Bakanlar Kuruluna
(D) Cumhuriyet Senatosuna
38. Sabunu iyi köpürtmeyen kireçli sert suları yumuşatmak için hangi madde kullanılır?
(A) Şap
(B) Soda
(C) Klor
(D) Çamaşır suyu

39. Yarıçapları r1 + 5 r1 = 5 cm ve r2 = 3 cm olan iki çemberden, büyüğünün çevresi, küçük çemberin çevresinden kaç santimetre uzundur?
(A) 2
(B) 6
(C) 8
(D) 12

(40. 44. SORULAR AŞAĞIDAKİ PARÇAYA GÖRE CEVAPLANDIRILACAKTIR.)

Emerson şöyle der: "Bugün en önemli şeyin hiç kimse tarafından aldatılmamak olduğunu sanırsın. Ama hayatının güneşi asıl senenin hiç kimseyi aldatmamağa çalıştığın gün doğacaktır." Pazardaki satıcıya "Hesabınız yanlış, benden az para aldınız!.." demek, bugün için tuhaf bir şeydir.

Hepimiz kendi hesaplarımızda aldanmamak için uğraşıyoruz, bu yüzden o güneşli gün henüz doğmuş değil.

İnce hesaplı olmak, sorumluluğu doğru hesaplamak, gerekirse kendine kıyabilmek demektir. Bu hesabı insan yalnız hesap yapması gereken yerde değil, her şeyde, bir şey alırken, bir şey verirken, sorumluyken, haklıyken, iyilik ederken, teşekkür ederken, her yerde ve her zaman yapabilmelidir. Hesabı çok kuvvetli olanlar bile bazı rakkamlarda yanılşlık yapabilirler.

Bir insanın ruhundaki soyluluk teşekkür etme yeteneğiyle anlaşılır. Teşekkür ruhtan gelen bir sorumluluk duygusudur, tıpkı topraktan çıkan çiçek gibi.

İçimizde sorumluluk duygularının yeniden canlanması, küllenen bir ateşin yeniden yanmasıdır. Sorumluluk duygusunun ölmesi, her şeye boş vermek, görevlere yan çizmek, anlaşmaları bozmak; bozduğu bir işi düzeltmeğe aldırmamak ise ruhen çökmek, ihtiyarlamak demektir. Rahatlığı böyle yan çizmede, boş vermede bulan bir insan, kendi kuyusunu kendi kazdığının, yırttığı,boş verdiği şeylerle toplum nazarında neler yitirdiğinin farkında bile değildir."

40. Yazara göre hayatımızın güneşi ne zaman doğacaktır?
(A) Herkesle iyi geçindiğimizde
(B) Kimseyi aldatmadığımızda
(C) Hesaplarımızı iyi yaptığımızda
(D) Teşekkür etmeyi öğrendiğimizde
41. Parçaya göre "ince hesaplı olmak" sözüyle anlatılmak istenen nedir?
(A) Sorumluluktan daima kaçınmak
(B) Gerektiğinde kendi zararına bir sonucu ortaya çıkarabilmek
(C) Kendi sorunlarını yanlışsız çözebilecek yetenekte olmak
(D) Hiç kimse tarafından aldatılmadığını bilmek.
42. Yazar, kişide sorumluluk duygusunun uyanmasını aşağıdakilerden hangisine benzetmiştir?
(A) Topraktan çıkan çiçeğe
(B) Pazarda uyarılan satıcıya
(C) Güneşli bir günün doğmasına
(D) Küllenen ateşin canlanmasına

43. Parçaya göre aşağıdakilerden hangisi, kişiyi ruhen çökertir?
(A) Sorumluluktan yoksun olmak
(B) Toplumun gözünden düşmek
(C) Başkalarınca aldatılmak
(D) İnce hesaplı olmak
44. Bu yazının ana fikri, aşağıdakilerden hangisidir?
(A) Sorumluluğu doğru hesaplamak, kişinin kendine kıyabilmesiyle mümkündür.
(B) Görevlere yan çizen, her şeye boş veren kişiler toplumun gözünden düşerler.
(C) İyi bir toplum düzeni, ancak kişiler birbirlerini aldatmadıklarında kurulabilir.
(D) Bugünün kişileri ince çıkar hesapları peşinde koşmaktadırlar.

45. Göktürk İmparatorluğunun ikiye bölünme nedeni aşağıdakilerden hangisidir?
(A) Kısa zamanda sınırlarının genişlemesi
(B) Çinlilerin Göktürkler üzerine baskı yapması
(C) Göktürk Hanı İstemi'nin Çinli'lere yenilmesi
(D) Göktürkler'de iç karışıklıkların çıkması

46. Ormanlar, insanlara aşağıdaki faydalardan hangisini sağlayamaz?
(A) Erozyonu önleme
(B) Bol su sağlama
(C) Depremleri önleme
(D) Enerji elde etme

47. 3200 lira %4'ten 3 ayda kaç lira faiz getirir?
(A) 32
(B) 96
(C) 128
(D) 384
48. Aşağıdaki sözcüklerden hangisinin "eki" "büyük ünlü uyumu" kuralına göre değişerek sözcüğe ulanmıştır?
(A) Bakacak
(B) Gelirken
(C) Bizimki
(D) Okuyor
49. Yunanistan, Osmanlı İmparatorluğundan hangi antlaşma ile ayrılmıştır?
(A) Edirne
(B) Pasarofça
(C) Karlofça
(D) Küçük Kaynarca
50. Erol, parasının 4:9'u ile tanesi 45 kuruştan 8 portakal satın aldığına göre, cebinde kalan para kaç kuruştur?
(A) 360
(B) 450
(C) 720
(D) 810
51. Yanan bir mum alevine tutulan porselen tabağın kenarında bu damlalarının oluşması, mumda hangi maddenin bulunduğunu gösterir?
(A) Karbon
(B) Hidrojen
(B) Oksijen
(D) Azot
52. Aşağıdaki cümlelerden hangisinde isim tamlaması vardır?
(A) İki otobüs yolda çarpıştı
(B) Kışın kırmızı kiremitleri kar kapattı
(C) Dalgalar, gemimizi enginlere sürükledi.
(D) Sonbahar rüzgârı yaprakları döktü
53. Aşağıdaki olaylardan hangisi Fatih Sultan Mehmet zamanında olmamıştır?
(A) Sırbistan'ın ele geçirilmesi
(B) Karamanoğullarından Konya'nın alınması
(C) Mısır'ın ele geçirilmesi
(D) Eflâk ve Boğdan'ın alınması
54. Beyaz ışığın tayfı, siyah kumaş üzerine düşürüldüğünde aşağıdakilerden hangisi meydana gelir?
(A) Mor bir renk görülür
(B) Kırmızı renk görülür
(C) Sarı renk görülür
(D) Hiçbir renk görülmez

55. Kare prizma şeklindeki bir depoda, 12 m3 su bulunmaktadır. Karenin bir ayrıtı 4 m olduğuna göre, suyun derinliği kaç m. dir?
(A) 0,75
(B) 1,50
(C) 3
(D) 4,50
56. Aşağıdakilerden hangisi, belediye meclisinin görevlerindendir?
(A) Belediye bütçesini düzenlemek
(B) Belediye bütçesini incelemek ve kabul etmek
(C) Belediye yasaklarına uymayanlara ceza vermek
(D) Belediye komisyonunun kararlarını uygulamak.

57. Yer sarsıntılarının meydana geliş nedeni aşağıdakilerden hangisidir?
(A) Yer derinliklerindeki sıcak maddelerin bazen yer yüzüne kadar çıkmaları
(B) Yer kabuğu katmanlarında yarı itmelerin meydana getirdiği kıvrımlar
(C) Yer kabuğundaki ani kırılma, kayma ve yerleşme ve içten gelen itmeler
(D) Yer kabuğu katmanlarında değişik zamanlarda meydana gelen yukarı doğru olan itmeler

58. Aşağıdakilerden hangisi, Avustralya'ya ekonomik yönden dünya çapında ün kazandırmıştır?
(A) Endüstri
(B) Tarım
(C) Petrol
(D) Yün
59. Aşağıdakilerden hangisi büyüteç olarak kullanılabilir?
(A) Çukur ayna
(B) Iraksak mercek
(C) Yakınsak mercek
(D) Işık prizması
60. Üçgen şeklindeki bir arsa, metrekaresi 35 liradan 7175 liraya satılmıştır. Bu arsanın taban uzunluğu 20 m olduğuna göre, yüksekliği kaç metredir?
(A) 1,25
(B) 2,05
(C) 12,5
(D) 20,5
61. Aşağıdaki cümlelerden hangisinin yüklemi gelecek zamanlıdır?
(A) Hepimizin geleceğini okul hazırlıyor
(B) İyilik kişinin içinden gelir
(C) Bir gün biz de uzaya füzeler göndereceğiz
(D) Sizler bu sıralara çalışarak geldiniz
62. Anadolu Selçuk Devletinin parlak devri neden kısa sürmüştür?
(A) Moğollar doğrudan Anadolu Selçuklularına baskı yaptığından
(B) Taht ve taç kavgaları çıktığından
(C) Anadolu birliği kesin olarak sağlanmadığından
(D) Bizanslılar Batı'dan Anadolu Selçuklularına baskı yaptığından
63. Durgun suda, gökteki ayın, suyun içindeymiş gibi görünmesinin nedeni aşağıdakilerden hangisidir?
(A) Su'dan geçen ışık ışınlarının kırılması
(B) Işık kaynağını, gözümüze giren ışık doğrultusundan sanmamız
(C) Işığın daima doğru bir yol izlemesi
(D) Su yüzüne çarpan ışık ışınlarının değilması
64. Neden dünyamızda gece ile gündüz arasındaki sıcaklık farkı, aydaki kadar büyük değildir?
(A) Çevresinde atmosferin bulunmasından
(B) Aydan daha hızlı dönmesinden
(C) İç kısımlarının sıcak olmasından
(D) Daha çok güneş ışını almasından
65. Bir fıçıda bulunan 224 litre sirkenin önce $\frac{?}{7}$ si, sonra da kalan sirkenin $\frac{3}{4}$ ü satılıyor. Fıçıda kalan sirke kaç litredir.
(A) 32
(B) 40
(C) 48
(D) 64

66. 24 m2'lik kaldırım her biri 25 dm2'lik taşlarla döşenmiştir. Taşların tanesi 4.50 liradan satın alındığına ve ayrıca her metrekare başına 7,5 lira işçilik ödendiğine göre kaldırımın taslarla döşenmesinde yapılan masraf kaç lidadır.?

(A) 612 **(C)** 223
(B) 432 **(D)** 180

67. Osmanlıların, Viyana'yı ikinci kuşatışlarında, ele geçiremeyişlerinin nedeni aşağıdakilerden hangisidir?

(A) Osmanlı ordusunun arkada birkaç düşman kalesi bırakarak Viyana önüne gelmesi
(B) Avusturya İmparatorunun kaleyi iyi savunması
(C) Kış mevsiminin yaklaşması ve ağır topların getirilmeyişi
(D) Merzifonlu Kara Mustafa Paşa'nın Viyana'nın teslimini beklemesi

68. Ayda bulunan bir astronotun, dünyayı şekildeki gibi görmesinin nedeni aşağıdakilerden hangisidir?

(A) Ayın, dünye ile güneş arasına girmesi
(B) Denizlerin daha parlak görünmesi
(C) Dünyanın güneş ile ay arasına girmesi
(D) Dünyada bazı kısımların fazla bulutlu olması

69. Bir havuza iki musluktan su akmaktadır. Birinci musluk, dakikada $4\frac{2}{5}$ litre. ikinci musluk bunun iki katı kadar su akıttığına göre, iki musluğun 1 saatte akıttığı su kaç litredir?

(A) $721\frac{1}{5}$
(B) 772
(C) $780\frac{1}{5}$
(D) 792

70. Aşağıdaki cümlelerden hangisinde türemiş sözcük vardır?

(A) Kişi, gerçek bir dostu kırk yılda bulur
(B) Bir çöplükte iki horoz ötmez
(C) Yel gibi gelen, sel gibi gider
(D) Devlet kuşu başa bir kez konar

71. Aşağıdaki görevlerden hangisini İçişleri Bakanlığı yapar?

(A) Askerlik çağına gelenleri silâh altına alır
(B) Yabancı devletlerle olan ilişkileri düzenler
(C) Güven ve huzuru sağlar
(D) Adalet düzenini sağlar

72. Bir kuru pilin elektrik devresinde aşağıdakilerden hangisi akar?

(A) Elektronlar
(B) Nişadır molekülleri
(C) Kömür atomları
(D) Çinko atomları

73. Bir iş yerinde çalışan baba ile oğul, 22 çalışma gününde 1320 lira aldılar. Oğulun gündeliği, babanın gündeliğinin $\frac{2}{3}$'si kadar olduğuna göre, babanın gündeliği kaç liradır?

(A) 24
(B) 36
(C) 40
(D) 42

74. Aşağıdaki cümlelerden hangisinde belgesiz zamir kullanılmıştır?

(A) Bir şeyi istemek, onu yapmaktır
(B) Kendi işini kendi gören kazanır
(C) Kişinin rahat edeceği tek yer vatandır
(D) Herkes hayattan bir şeyler bekler

75. Toros dağları ile Kuzey Anadolu dağlarının birbirine benzeyen tarafları aşağıdakilerden hangisidir?

(A) İç kısımlara sayısız geçitlerle bağlanmaları
(B) Eteklerinde maki bitkilerinin yer alması
(C) En uzun akarsuların yamaçlarını aşarak denize ulaşması
(D) En yüksek kısımlarının doğu kesimlerde bulunması

76. Bir mobilyacı tanesi 80 liradan 25 tane sandalya satıyor. Müşteriden 250 lira eksik aldığına göre yüzde kaç indirim yapmıştır?

(A) 8
(B) 10
(C) 12,5
(D) 15,4

77. Katı maddelerde ısı, iletimle nasıl yayılır?

(A) Isınan molekül, soğuk moleküle yer değiştirir
(B) Isınmakla titreşimi artan molekül, komşu molekülü etkiler
(C) Isı tanecikleri molekül boşluklarından geçer
(D) Isı tanecikleri moleküldeı moleküle çarparak ilerler.

78. Yıldırım Beyazıt, İstanbul'u ikinci kez kuşatmışken neden vazgeçmiştir?

(A) Doğuda Timur tehlikesinin belirmesinden
(B) Haçlı ordularının Niğbolu'ya kadar gelmelerinden
(C) Bizanslıların Avrupa'dan yardım istemlerinden
(D) Bizans surlarının savunmayı kolaylaştırmasından

79. Aşağıdaki şekilde görüldüğü gibi, bir kenarı 120 m. olan kare şeklindeki bir bahçenin ortasından 4 m. genişlikte iki yol açılmış ve kalan kısım ekilmiştir, buna göre ekili alan kaç m2'dir?

(A) 13440
(B) 13456
(C) 14440
(D) 14456

80. İki dokumacıdan birincisi günde $8\frac{3}{5}$ metre, diğeri $12\frac{1}{2}$ metre bez dokuyor. İkisi birden bir hafta çalıştıklarına göre, dokunan bez kaç metredir?

(A) $126\frac{6}{10}$
(B) $140\frac{6}{10}$
(C) $147\frac{7}{10}$
(D) $673\frac{1}{10}$

CEVAPLARINIZI KONTROL EDİNİZ

GEÇEN HAFTA YAYINLANAN 80 SORUNUN CEVAPLARI

1 — B	31 — D	61 — A
2 — D	32 — C	62 — C
3 — B	33 — A	63 — B
4 — A	34 — A	64 — C
5 — D	35 — C	65 — D
6 — C	36 — B	66 — C
7 — C	37 — D	67 — A
8 — A	38 — B	68 — D
9 — B	39 — A	69 — C
10 — D	40 — C	70 — A
11 — C	41 — B	71 — B
12 — D	42 — A	72 — D
13 — A	43 — A	73 — A
14 — A	44 — D	74 — B
15 — B	45 — B	75 — C
16 — B	46 — A	76 — D
17 — D	47 — B	77 — A
18 — C	48 — D	78 — D
19 — A	49 — D	79 — C
20 — D	50 — C	80 — B
21 — C	51 — C	
22 — D	52 — B	
23 — C	53 — A	
24 — B	54 — D	
25 — D	55 — B	
26 — C	58 — C	
27 — B	57 — C	
28 — D	58 — A	
29 — C	59 — C	
30 — A	60 — C	

Süpermırnav







EN GÜÇLÜ OLMAK SONUNDA YORUYOR ADAMI... HEP GÜÇLÜ OLMAK..

ARA, SIRA GÜÇSÜZ OLMAK İSTERDİM.. ZAYIF TARAFLARIM DA OLSUN..

HERKES GİBİ YANİ /.

EYVAH!..

TUHH /.. ELİMDEN KAÇTI /.. İLK KEZ BAŞIMA GELİYOR..

FAKAT... BANA N'OLUYOR ŞİMDİ DE..

BOBO!.. ARTIK UÇAMIYORUM GALİBA!..

OLAMAZ BU /.

OLUYOR İŞTE!.. SÜPER GÜCÜMÜ KAYBEDİYORUM!..

YAVAŞ.. NE BAĞIRIYORSUN ? DUYANLAR OLABİLİR..

CANKURTARAN YOK MUUU ?..

HAPI YUTTUK /. BENİ ÇAĞIRIYORLAR /.

PENCELERİME TUTUN, GİDİYORUZ...

DAHA YÜKSEKTEN UÇAMAZ MISIN ?

UÇAMAM /. BU KADAR YÜKLE KOLAY MI ?

İNŞALLAH, KİMSECİKLER GÖRMEMİŞTİR..

İŞTE GELDİK.. PENCEREDEN ATLARSAM, KİMSE ANLAMAZ.. KONDUM SANIRLAR /.

HÜ HÜ HÜ...

İYİ Kİ GELDİNİZ /.. BEBECİĞİM GENE KAÇTI /.

BAKSANIZA, PARKININ PARMAKLIKLARINI NASIL KESMİŞ /.

BU.. BUNU AGAGAK MI YAPTI YANİ ?.

SAKİN OL, SÜPERMIRNAV..

ONU BULMALISINIZ.. NELER YAPACAĞI BELLİ OLMAZ /.

HİÇ MERAK ETMEYİN... ARAMAYA GİDİYORUZ..

İŞTE /. İŞTE GELİYOR SÜPERMIRNAV /. CANAVAR ÇOCUĞU BULACAK /.

ARAYAN BELASINI DA BULUR..

GÖKYÜZÜNDE ATEŞ GİBİ KAYARAK, YAKALAYACAK ONU /

HA ?. EVİNİZE DÖNÜN.. ONU ÇAKTIRMADAN YAKALAMAMIZ GEREK..

YEDİK AYYAYI /.

BİR DE ZAYIF OLMAK İSTİYORDUM.. AL SANA.. NE GÜZEL UÇARKEN.. BÖYLE /.

HEY, BOBO UÇUYORUM!..

BERNARD'A SÜKÜRLER /. *

* SAINT BERNARD KÖPEKLERİ

ZAMANE BEBEKLERİ İSTE!..
İYİ BİR SOPA ÇEKTİN Mİ ÖĞRENİR HANYAYI KONYAYI...
BU SIRADA BEBEK, YOLUNDAKİ MUHALLEBİCİLERİ SOYARAK İLERLİYORDU...
AGAGAK!..
İSTE GÖRÜNDÜ... KÖTÜ NİYETİ GİDİŞİNDEN BELLİ...
ARKASINA İKİ TANE VURDUM MU...
GLOU GLOU GLOU...
BAKIN, BAKIN... SÜPERMIRNAV ONU YAKALIYOR...
YAKALA... TUT ONU!..
HOPPALA!.. YİNE BAŞLIYORUZ...
BLING
ŞEVY!.. HAVA BOŞLUĞUNA RASTLADIM DA...
HAH, HAH!.. SÜPERMIRNAV DA AMMA SAKACI DİMİ?..
YANİ, HAVADAN DAHA AĞIR OLDUĞUNU MU SÖYLEMEK İSTİYOR? HAH, HA, HA!..
SEN DUA ET Kİ, HİÇBİR ŞEYDEN ANLADIKLARI YOK...
BİZ BURDA DALGA GEÇERKEN, SÜT EMİCİ CANAVAR YOLUNDA İLERLİYOR...
İSTERSEN BEN DÜŞERİM PEŞİNE...
OLDU... BEN SAAT KULESİNİN TEPESİNDE BEKLİYORUM...

KAL SAĞLICAKLA...
ACELE ET... KENTTEN AYRILDI BİLE!..
ARAYI FAZLA AÇMAMAK GEREK... AFACAN, ARABASIYLA İYİ HIZ YAPIYOR, SPOR ARABA SÜRÜYOR SANKİ!..
VROOOAM...
SAKİN DURAN HAYVANLAR, ONU GÖRÜNCE KORKUDAN KAÇMAYA BAŞLADILAR... HERHALDE İLK ZİYARETİ DEĞİLDİ DE ONDAN...
BEBEK, SÜTSAMAN BABA'NIN ÇİFTLİĞİNE İNDİ SONUNDA... SÜT KOKUSU ONU ÇEKTİ!..
GEL DE, MASKELİ, KOCAMAN, KULAKLI, KIRMIZI KÖPEK KARDEŞLE OYNA BİRAZ... İSTEMEZ MİSİN?
GGRR
TATLILIKLA YOLA GETİRMEYİ DENEYELİM ÖNCE...
SLURP SLURP SLURP SLURP
SCHLOUF
ALO, POLİS Mİ?.. JANDARMA MI?.. ÇABUK GELİN... KUDURMUŞUN BİRİ İNEKLERİMDE SÜT BIRAKMAYACAK...

BİRDENBİRE KENDİMİ ÇOK İYİ HİSSETMEYE BAŞLADIM... UÇMAYI DENEYECEĞİM..

OLDU... YAŞASIN!.. BOBO'YA DESTEK OLMAYA KOŞALIM...

GELDİM BOBO! SADIK DOSTUM, YETİŞTİM!..

GURP!

ŞİMDİ DE DAMA ÇIKTI!.. GAZ ÇIKARIYOR OLMALI!.. ÇOK İÇTİ!..

EH, ARTIK ELİMDEN KURTULAMAZ..

GRR

?

İŞTE, ORADALAR!..

KAMERALARI YERLEŞTİRİN...

GAZETEMİZ İÇİN BİR SÖZ...

DİNLEYİCİLERİMİZ İÇİN KONUŞUR MUSUNUZ?

İZLEYİCİLERİMİZE GÖRÜNÜR MÜSÜNÜZ?

AYY!.. YİNE BAŞLADI!..

PAF

AGA...

DİNLEYİN... ŞİMDİ BEBEK KONUŞUYOR...

A...BLA.BLA.BLİ AREE.. AGA!..

NE DEDİĞİ ANLAŞILMIYOR!.. BİR TERCÜMAN BULMALIYIZ...

BEN SİZE FAYDALI OLABİLİRİM.. KÜÇÜKKEN BEN DE BEBEKÇE KONUŞUYORDUM...

...BLİ-BLA-BLA... GNA!..

...A GNA... GLİF GNİF NU.. AGA, BLA, BLA!..

DİYOR Kİ... BU KENTİN EN GÜÇLÜSÜ O İMİŞ!.. SÜPERMIRNAV'LA ÜNVAN MAÇI YAPMAK İSTİYORMUŞ... ONA MEYDAN OKUYORMUŞ... MUŞ...

HAH, HAA!.. SÜPERMIRNAV ONU PESTİLE ÇEVİRİR BİR PENÇEDE...

BU KONUDA SİZ NE DİYECEKSİNİZ SÜPERMIRNAV?

ŞEYY!.. YANİ, DEMEM Kİ Kİ!..

SÜPER MIRNAV KABUL ETTİ... VAR MI İDDİAYA GİREN?..

ÜNVANIMI KOYMAZSAM, KORKTUĞUMU SANIRLAR.. DÜRÜM KÖTÜ!..

KURNAZLIK ETMEYE ÇALIŞ... NİHAYET BİR BEBEK KARŞINDAKİ!..

EVET, YAŞI İÇİN FAZLA GELİŞMİŞ BİR BEBEK!..

HAZIR MISINIZ?.. SADECE SİZİ BEKLİYORUZ MEYDANA...

HA?.. HAAA... TABİ!..

İYİ ŞANSLAR!..

GAYRET SÜPERMIRNAV.

ŞU BACAKSIZIN BACAKLARINI KIR DA GÖRSÜN!..

SAĞIMDA SÜPERMIVNAV...30 KİLO ADALE VE TIRNAKTAN YAPILMIŞ... SOLUMDA İSE AGAGAK... BİRKAÇ LİTRE SÜT VE BİRAZ DA BEYİN... YAVAŞ YAVAŞ YAKLAŞIYORLAR... ÇOK HEYECANLI, ÇOK!..









Avcı çok korktu!.. Avcıyı böylesine korkutan nedir? Bunu bulmak için 0 numaralı yerleri mavi, 1 numaralı yerleri sarı, 2 numaralı yerleri kırmızı, 3 numaralı yerleri siyah, 4 numaralı yerleri kahverengiye boyayın.

Pelikan

Dünya Çocuklarının Sevgilisi

Pelikan

Yazı yazan, çizgi çizen herkes
yazı nereye ve
neyle yazılırsa yazılsın
yanlışlarını silmek için
PELİKAN silgisi bulunacaktır.

Her çeşit kalemle yapılan
yanlışlar için
PELİKAN'ın silgiler ordusu
yanınızdadır.

BÜROSAN

Büro Sanayi A.Ş.
Ankara Asfaltı Soğanlık Köyü
Kartal – İstanbul
Tel: 53 48 00